DUHLER.DE

ZEICHENSCHULE

Präzisionsübungen im Technischen Zeichnen

SCHÜLER 



LEHRER

(c) HJL

1. Teile die Achsen in 10mm-Schritte ein!
2. Beschrifte von 1 - 10. Der Schnittpunkt der beiden Achsen = 0
3. Verbinde von:
   1 zu 10 => 2 zu 9 => 3 zu 8 => usw.
   die Summe ergibt immer 11 => 1 + 10 = 11



DUHLER.DE HJ Lubitz	Zeichnungsname					
	gezeichnet von	Maßstab	Datum	Blatt	geprüft von	Note

SOLID EDGE ACADEMIC COPY

1. Teile die Achsen in 10mm-Schritte ein!
2. Beschrifte von 1 - 10. Der Schnittpunkt der beiden Achsen = 0
3. Verbinde von:
   1 zu 10 => 2 zu 9 => 3 zu 8 => usw.
   die Summe ergibt immer 11 => 1 + 10 = 11

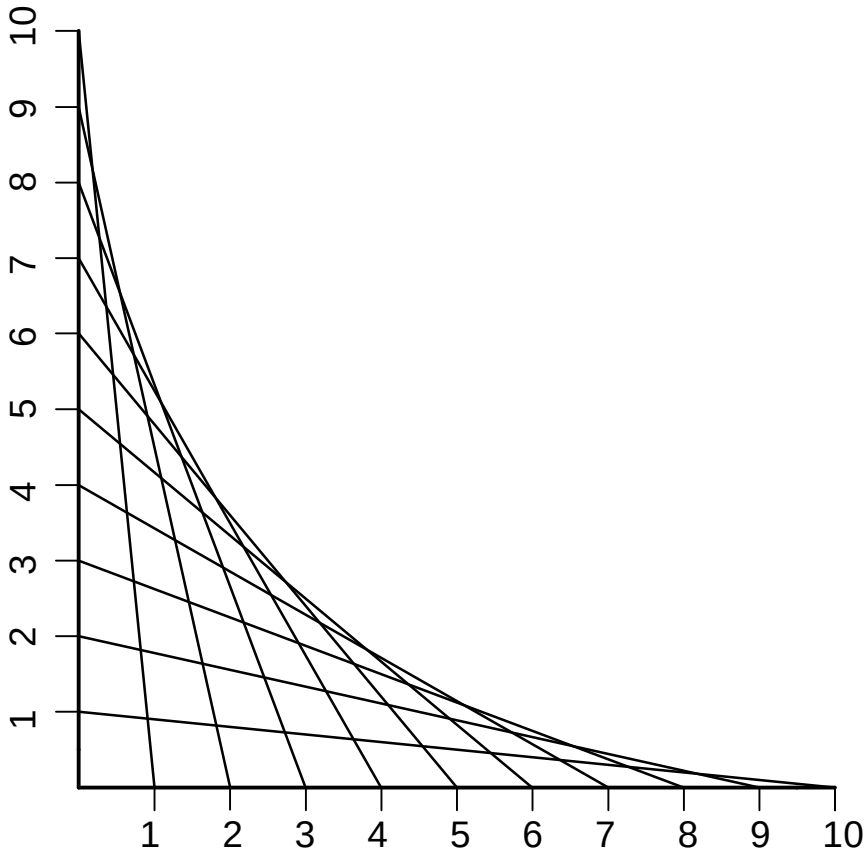

DUHLER.DE HJ Lubitz	Zeichnungsname: Präzisionsübung				
gezeichnet von	Maßstab	Datum	Blatt 1	geprüft von	Note

SOLIDEDGE ACADEMIC COPY



1. Teile die Achsen in 10mm-Schritte ein!
2. Beschrifte von 1 - 10. Der Schnittpunkt der beiden Achsen = 0
3. Verbinde von:
   1 zu 10 => 2 zu 9 => 3 zu 8 => usw.
   die Summe ergibt immer 11 => 1 + 10 = 11

SOLID EDGE ACADEMIC COPY

DUHLER.DE

HJ Lubitz

Zeichnungsname					
gezeichnet von	Maßstab	Datum	Blatt	geprüft von	Note

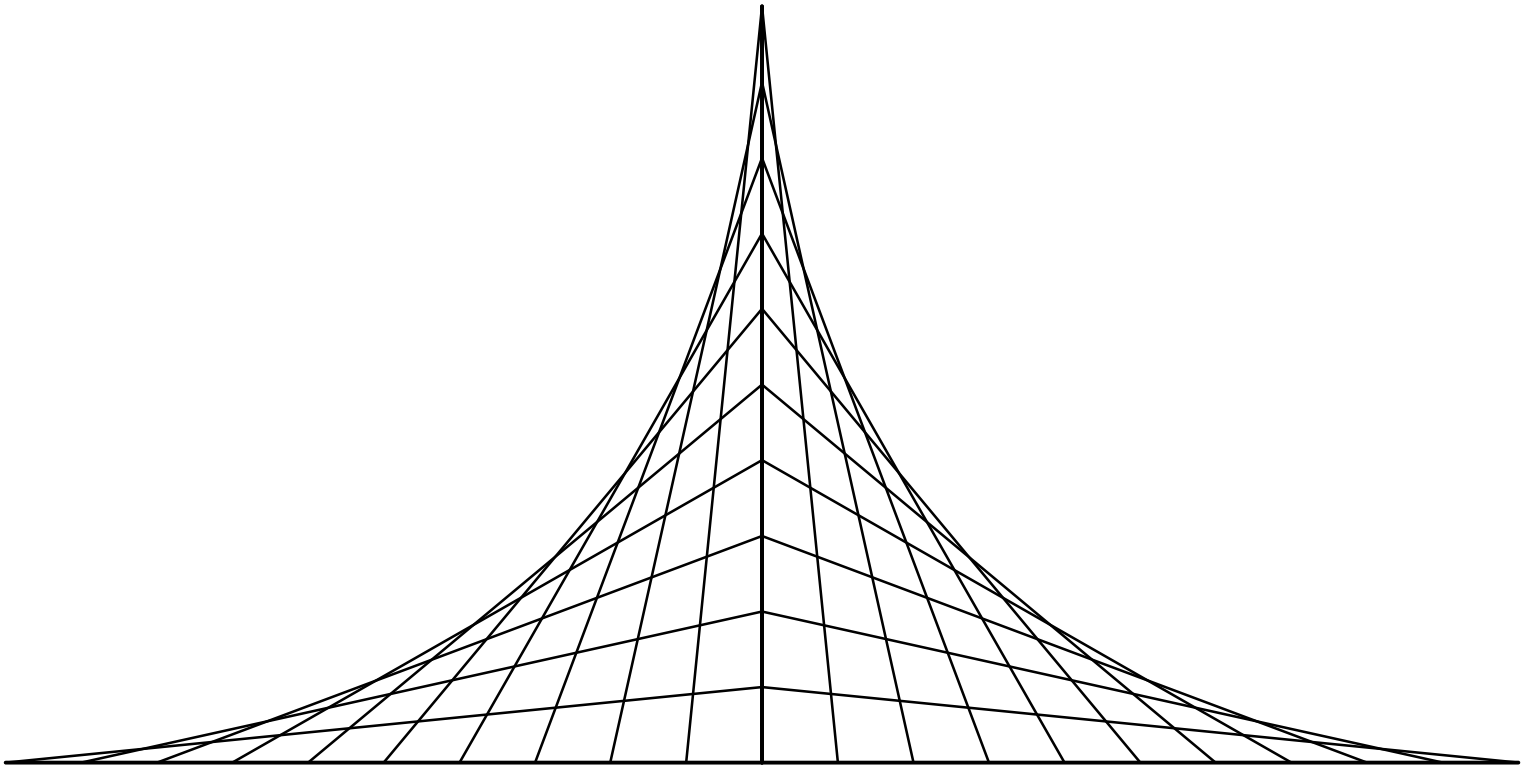

SOLID EDGE ACADEMIC COPY

DUHLER.DE

HJ Lubitz

Zeichnungsname	Präzisionsübung					
gezeichnet von		Maßstab	Datum	Blatt 2	geprüft von	Note

1. Teile die Achsen in 5mm-Schritte ein!
2. Beschrifte von 1 - 20. Der Schnittpunkt der beiden Achsen = 0
3. Verbinde von:
   1 zu 20 => 2 zu 19 => 3 zu 18 => usw.
   die Summe ergibt immer 21 => 1 + 20 = 21



DUHLER.DE

HJ Lubitz

Zeichnungsname					
gezeichnet von	Maßstab	Datum	Blatt	geprüft von	Note

SOLIDEDGE ACADEMIC COPY

1. Teile die Achsen in 5mm-Schritte ein!
2. Beschrifte von 1 - 20. Der Schnittpunkt der beiden Achsen = 0
3. Verbinde von:
   1 zu 20 => 2 zu 19 => 3 zu 18 => usw.
   die Summe ergibt immer 21 => 1 + 20 = 21

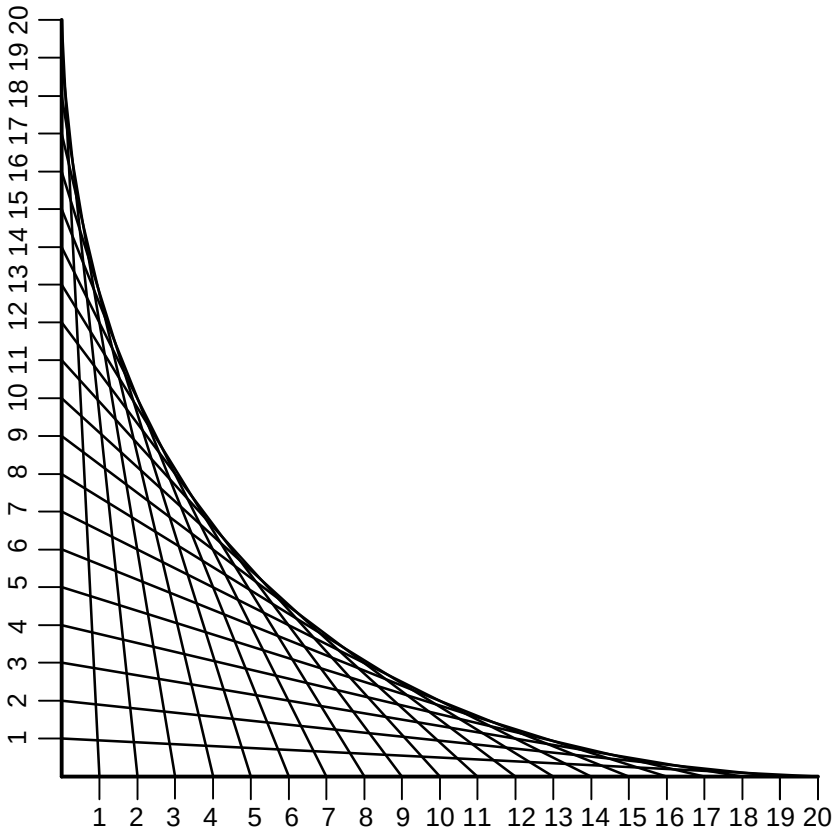

DUHLER.DE HJ Lubitz	Zeichnungsname: Präzisionsübung					
	gezeichnet von	Maßstab	Datum	Blatt: 3	geprüft von	Note

SOLIDEDGE ACADEMIC COPY



1. Teile die Achsen in 5mm-Schritte ein!
2. Beschrifte von 1 - 20. Der Schnittpunkt der beiden Achsen = 0
3. Verbinde von:
   1 zu 20 => 2 zu 19 => 3 zu 18 => usw.
   die Summe ergibt immer 21 => 1 + 20 = 21

SOLID EDGE ACADEMIC COPY

DUHLER.DE

HJ Lubitz

Zeichnungsname					
gezeichnet von	Maßstab	Datum	Blatt	geprüft von	Note

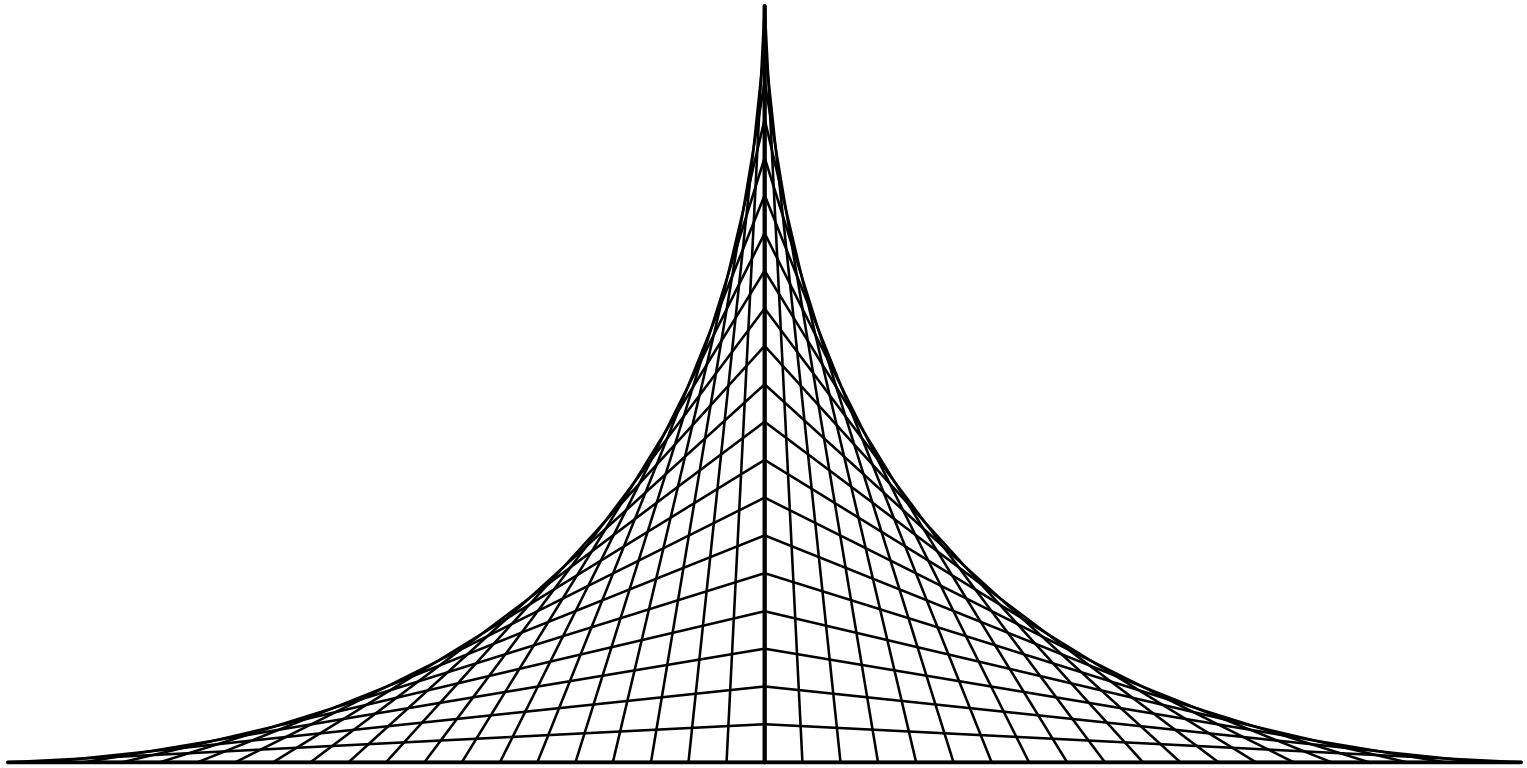

SOLID EDGE ACADEMIC COPY

DUHLER.DE

HJ Lubitz

Zeichnungsname	Präzisionsübung					
gezeichnet von		Maßstab	Datum	Blatt 4	geprüft von	Note

1. Teile die Achsen in 5mm-Schritte ein!
2. Beschrifte von 1 - 20. Der Schnittpunkt der beiden Achsen = 0
3. Verbinde von:
   1 zu 20 => 2 zu 19 => 3 zu 18 => usw.
   die Summe ergibt immer 21 => 1 + 20 = 21



DUHLER.DE HJ Lubitz	Zeichnungsname					
	gezeichnet von	Maßstab	Datum	Blatt	geprüft von	Note

SOLID EDGE ACADEMIC COPY

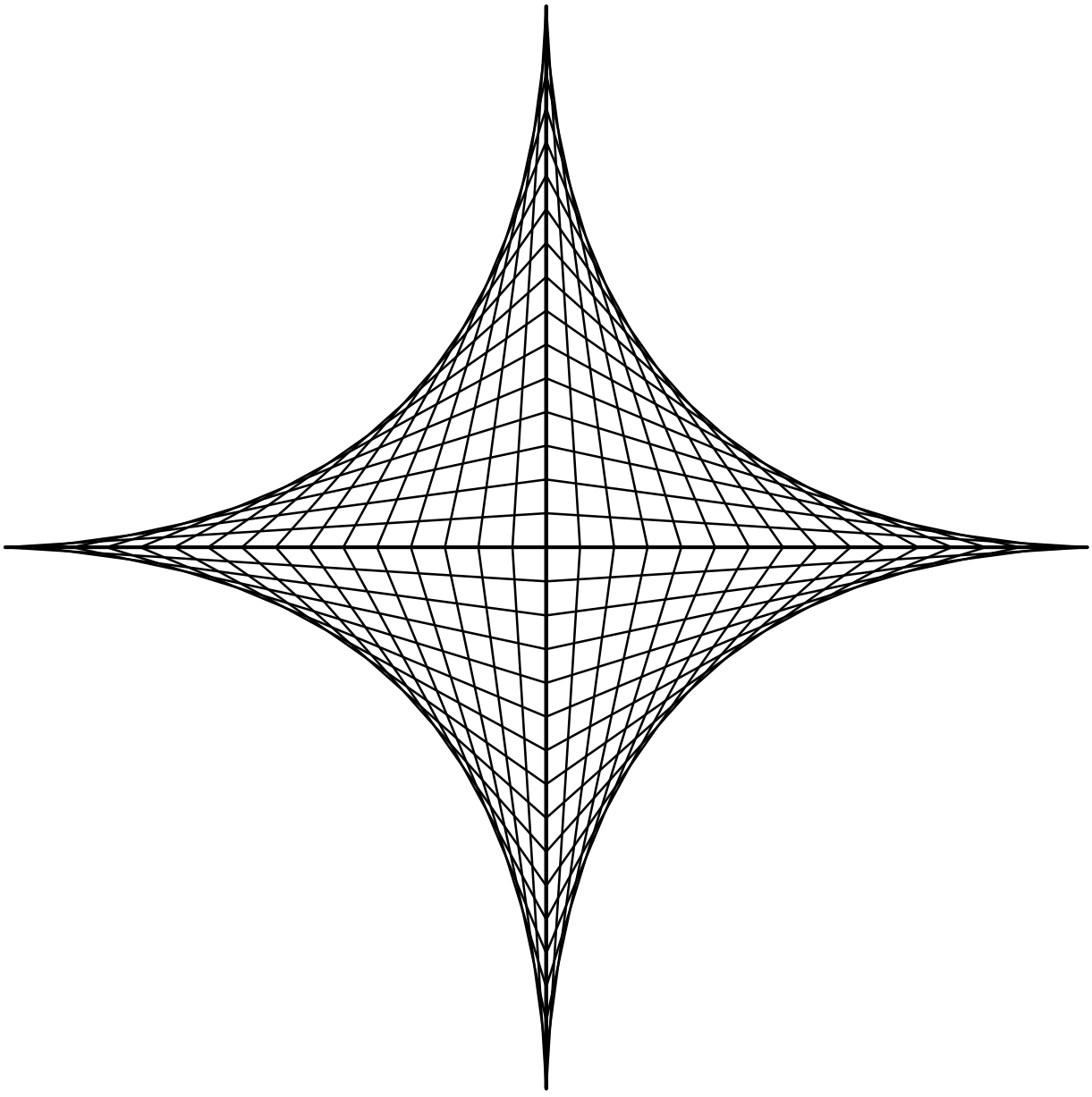

DUHLER.DE HJ Lubitz	Zeichnungsname: Präzisionsübung					
gezeichnet von	Maßstab	Datum	Blatt 5	geprüft von	Note	

SOLIDEDGE ACADEMIC COPY

1. Teile die Achsen in 5mm-Schritte ein!
2. Beschrifte von 1 - 20. Der Schnittpunkt der beiden Achsen = 0
3. Verbinde von:
   1 zu 20 => 2 zu 19 => 3 zu 18 => usw.
   die Summe ergibt immer 21 => 1 + 20 = 21

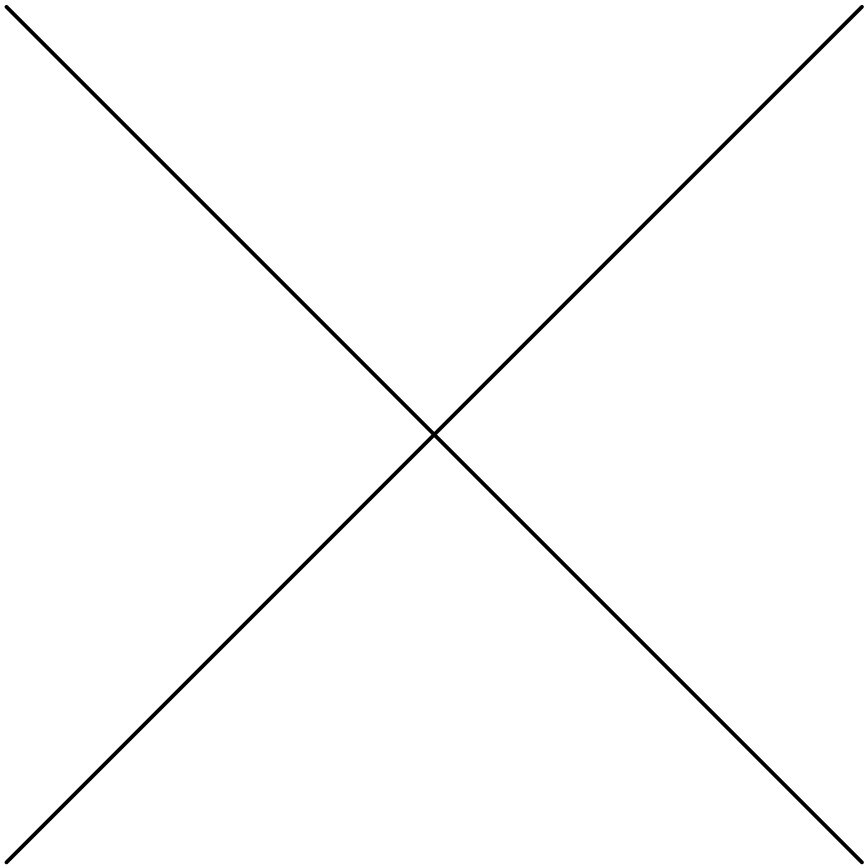

DUHLER.DE HJ Lubitz	Zeichnungsname					
	gezeichnet von	Maßstab	Datum	Blatt	geprüft von	Note

SOLID EDGE ACADEMIC COPY

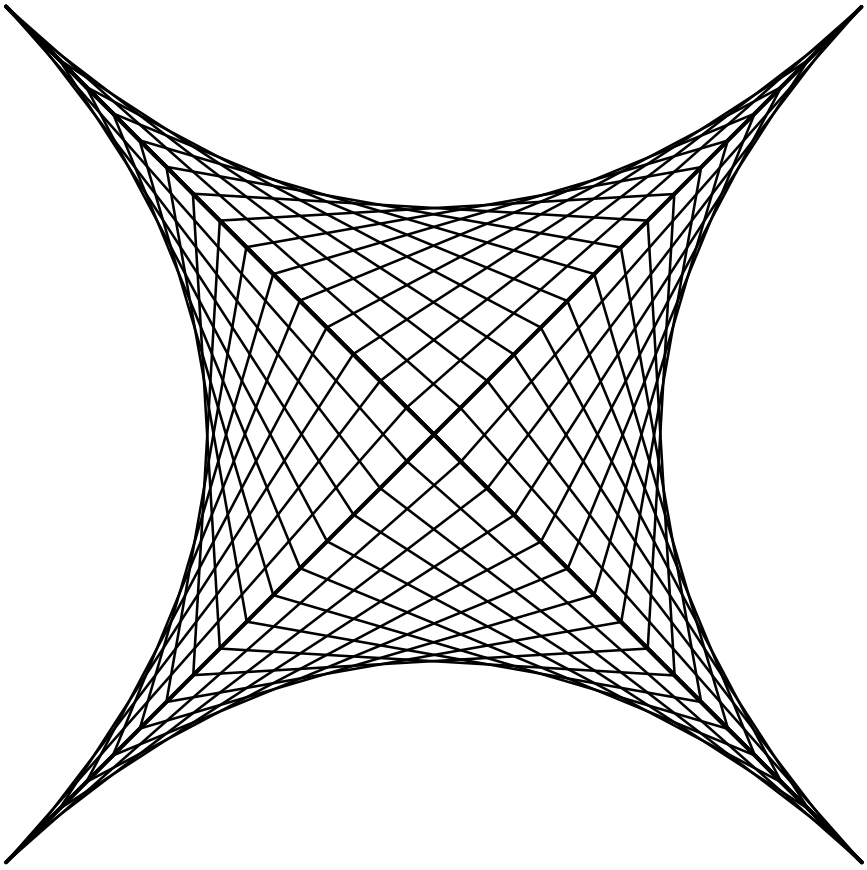

DUHLER.DE

HJ Lubitz

Zeichnungsname	Präzisionsübung				
gezeichnet von	Maßstab	Datum	Blatt 6	geprüft von	Note

SOLIDEDGE ACADEMIC COPY

1. Teile die Achsen in 5mm-Schritte ein!
2. Beschrifte von 1 - 20. Der Schnittpunkt der beiden Achsen = 0
3. Verbinde von:
   1 zu 20 => 2 zu 19 => 3 zu 18 => usw.
   die Summe ergibt immer 21 => 1 + 20 = 21

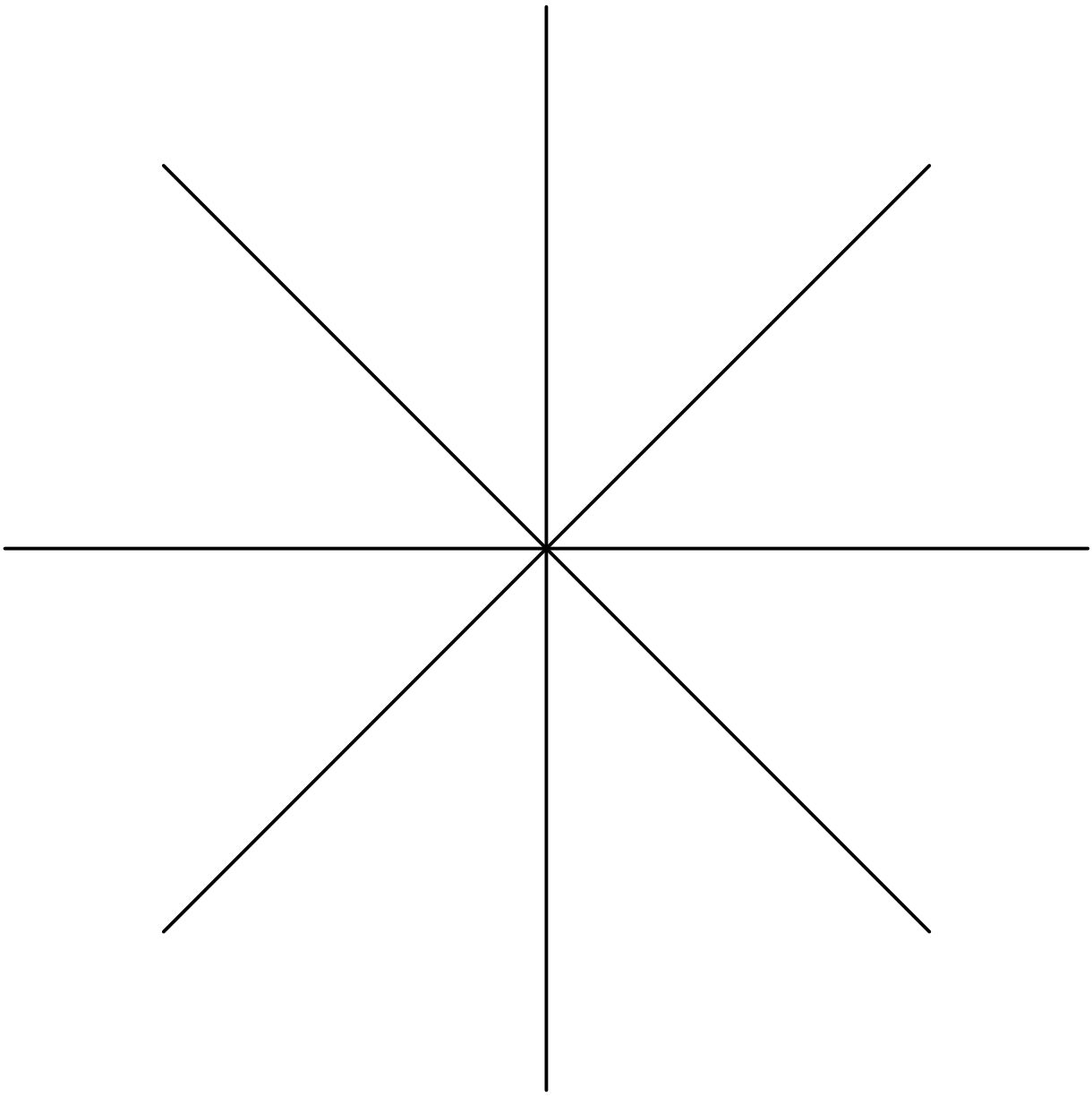

DUHLER.DE HJ Lubitz	Zeichnungsname					
	gezeichnet von	Maßstab	Datum	Blatt	geprüft von	Note

SOLIDEDGE ACADEMIC COPY



DUHLER.DE

HJ Lubitz

Zeichnungsname	Präzisionsübung				
gezeichnet von	Maßstab	Datum	Blatt 7	geprüft von	Note

SOLIDEDGE ACADEMIC COPY



DUHLER.DE

HJ Lubitz

Zeichnungsname					
gezeichnet von	Maßstab	Datum	Blatt	geprüft von	Note

SOLID EDGE ACADEMIC COPY

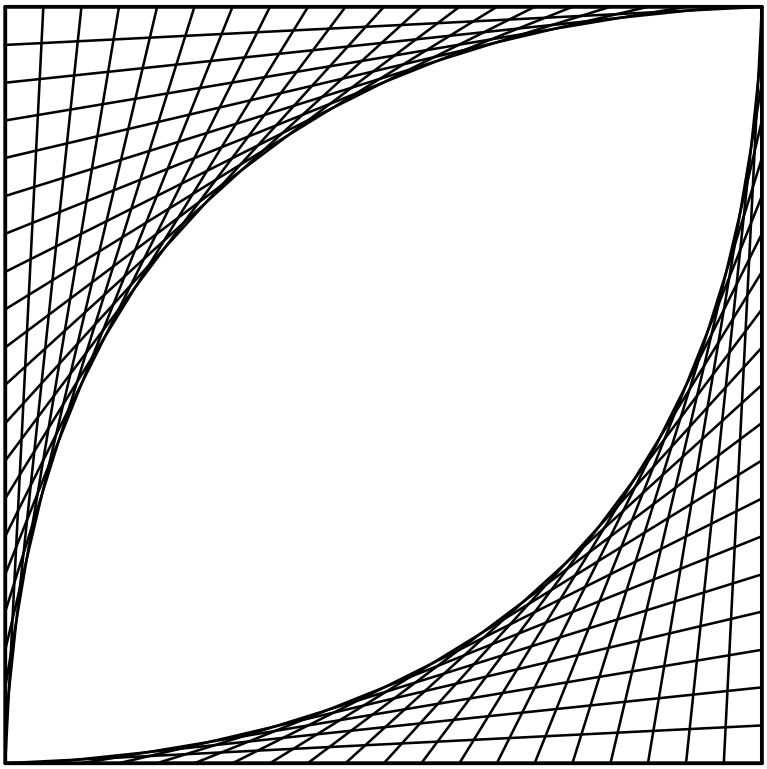

DUHLER.DE

HJ Lubitz

Zeichnungsname	Präzisionsübung				
gezeichnet von	Maßstab	Datum	Blatt 8	geprüft von	Note

SOLID EDGE ACADEMIC COPY

1. Teile die Achsen in 5mm-Schritte ein!
2. Beschrifte von 1 - 20. Der Schnittpunkt der beiden Achsen = 0
3. Verbinde von:
   1 zu 20 => 2 zu 19 => 3 zu 18 => usw.
   die Summe ergibt immer 21 => 1 + 20 = 21



SOLID EDGE ACADEMIC COPY

DUALER .DE
Abschlussprüfung

Zeichnungsname					
gezeichnet von	Maßstab M	Datum	Blatt	geprüft von	Note

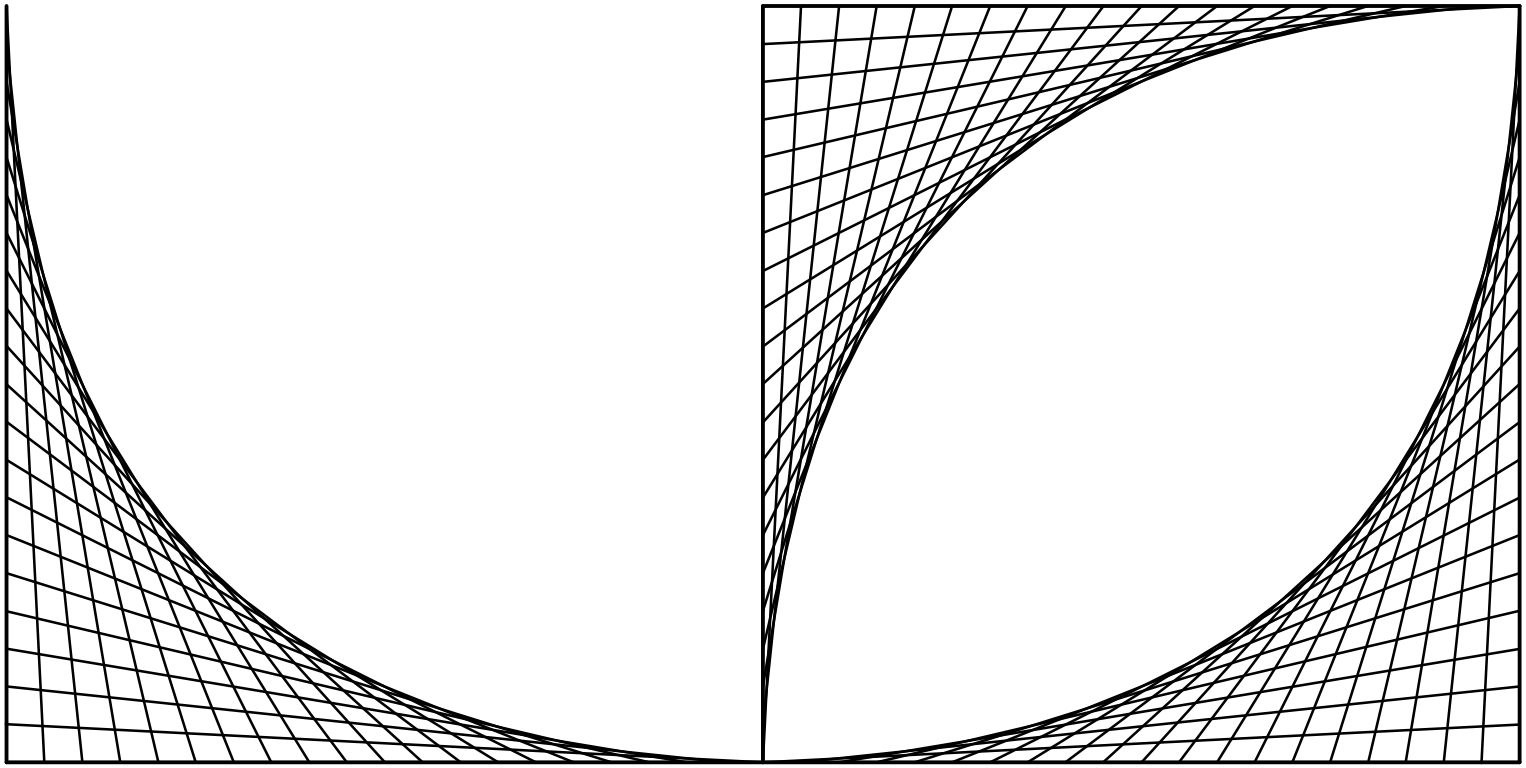

SOLID EDGE ACADEMIC COPY

Abschlussprüfung

Zeichnungsname	Präzisionsübung				
gezeichnet von	Maßstab	Datum	Blatt	geprüft von	Note
	M		9		

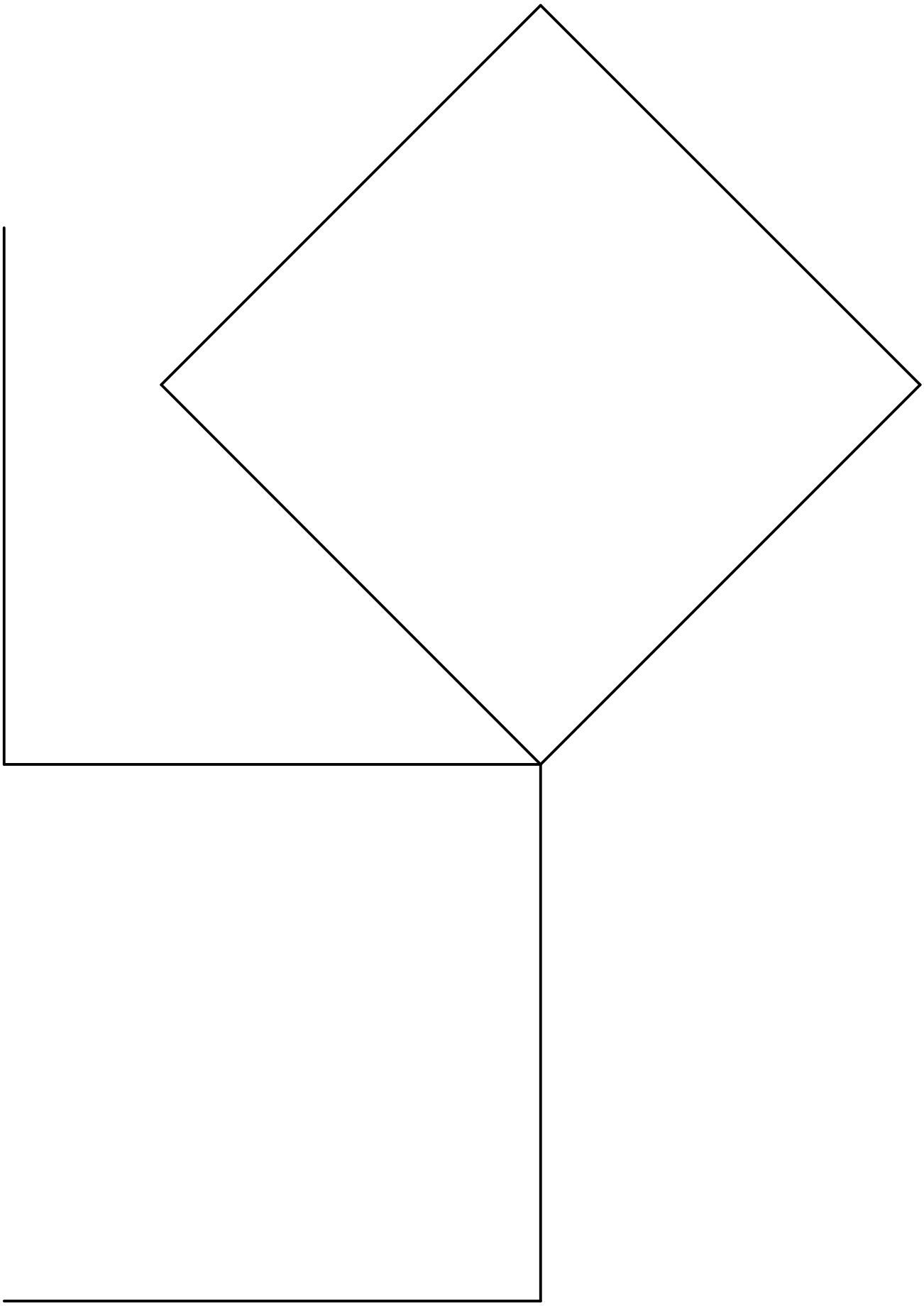

DUHLER.DE

HJ Lubitz

Zeichnungsname					
gezeichnet von	Maßstab	Datum	Blatt	geprüft von	Note

SOLIDEDGE ACADEMIC COPY

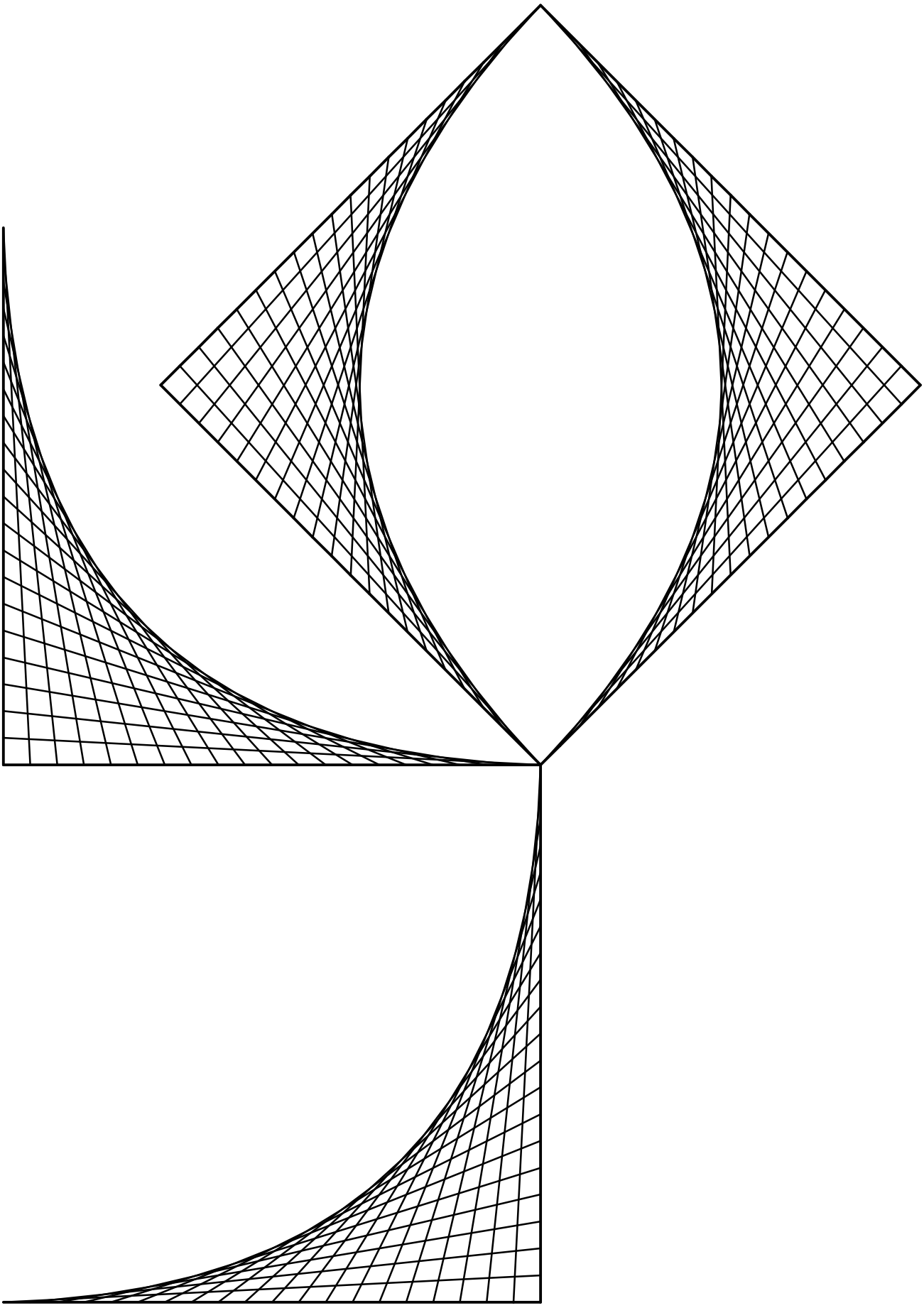

DUHLER.DE HJ Lubitz	Zeichnungsname: Präzisionsübung					
gezeichnet von	Maßstab	Datum	Blatt 10	geprüft von	Note	

SOLID EDGE ACADEMIC COPY

Erläuterung:

1. Teile die beiden Achsen in 10mm-Schritte ein!
2. Beschrifte von 1 - 10. Der Schnittpunkt der beiden Achsen = 0
3. Verbinde von:
   1 zu 10 => 2 zu 9 => 3 zu 8 => usw.
   die Summe ergibt immer 11

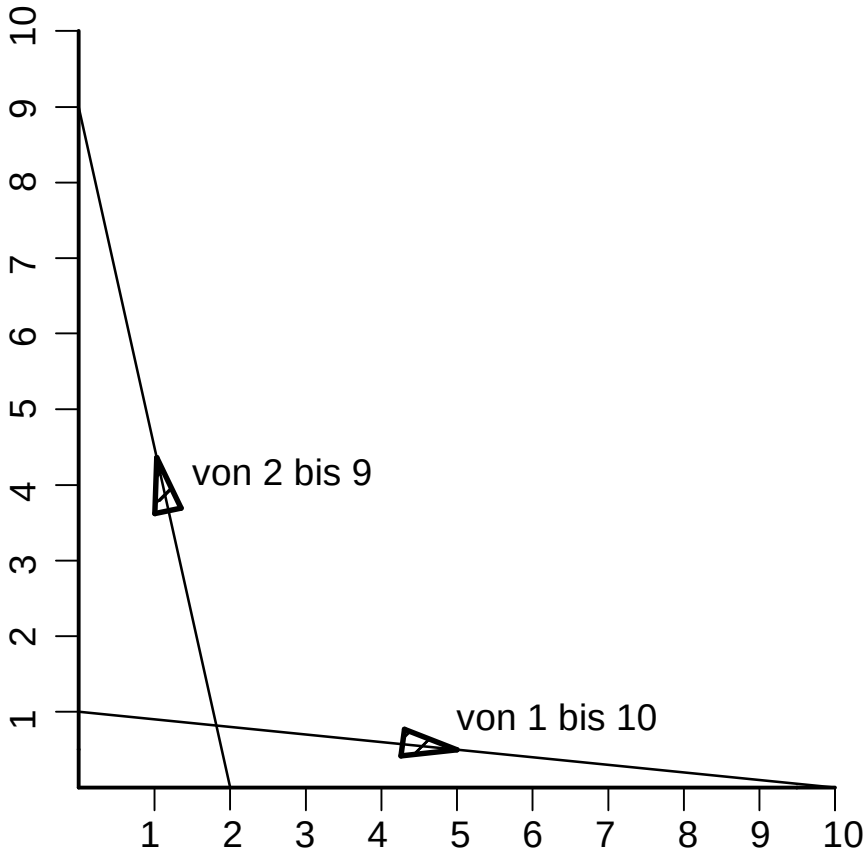

DUHLER.DE HJ Lubitz	Zeichnungsname: Erklärung					
	gezeichnet von	Maßstab	Datum	Blatt	geprüft von	Note

SOLIDEDGE ACADEMIC COPY